Les triangles particuliers

Mesurer et reconnaître

Équilatéral : 3 côtés égaux. Isocèle : 2 côtés égaux. Rectangle : un angle droit. Un triangle peut être rectangle ET isocèle.

1 **Mesure les côtés avec ta règle, cherche un angle droit avec ton équerre, puis écris la nature de chaque triangle.**

A



Ce triangle est _____

B

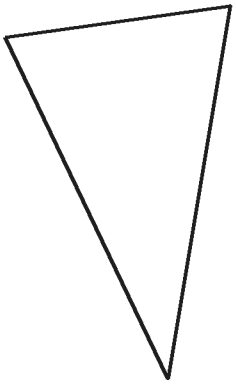

Ce triangle est _____

C

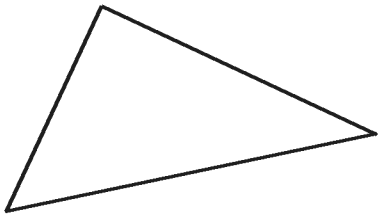

Ce triangle est _____

D

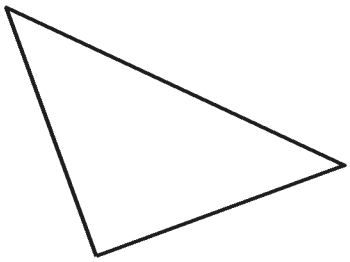

Ce triangle est _____

E

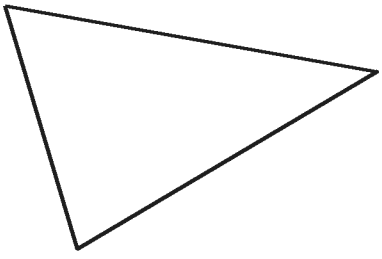

Ce triangle est _____

F

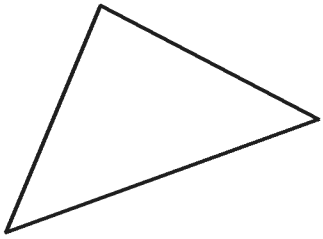

Ce triangle est _____

Les triangles particuliers

Corrigé · Mesurer et reconnaître

Équilatéral : 3 côtés égaux. Isocèle : 2 côtés égaux. Rectangle : un angle droit. Un triangle peut être rectangle ET isocèle.

1 **Mesure les côtés avec ta règle, cherche un angle droit avec ton équerre, puis écris la nature de chaque triangle.**

A

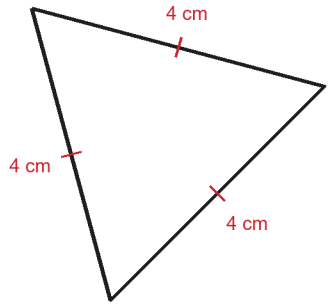

Ce triangle est **équilatéral**

B

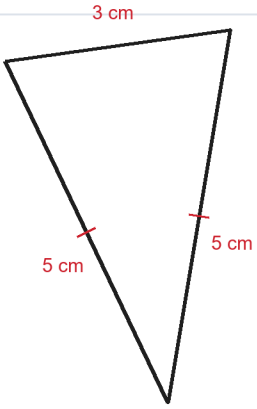

Ce triangle est **isocèle**

C

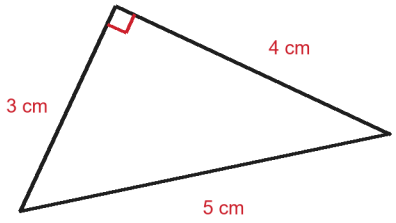

Ce triangle est **rectangle**

D

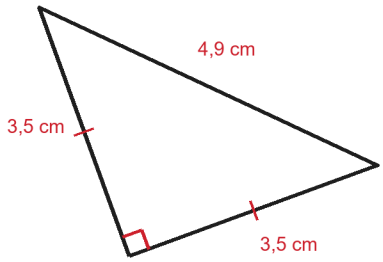

Ce triangle est **rectangle et isocèle**

E

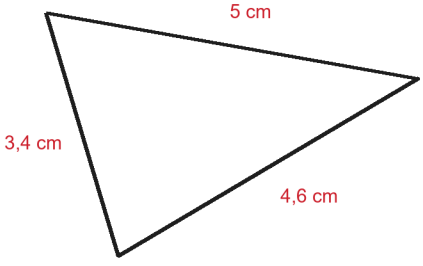

Ce triangle est **quelconque**

F

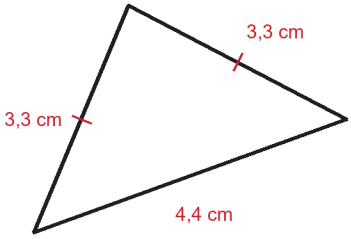

Ce triangle est **isocèle**