Potence vierge à imprimer

6 potences · un diviseur à 1 chiffre

Écris le nombre à diviser à gauche et le diviseur à droite, un chiffre par carreau. Puis les 5 étapes : 1. où commencer, 2. combien de fois, 3. multiplier puis soustraire, 4. abaisser le chiffre suivant, 5. vérifier.

a Ma division : ..... : .....

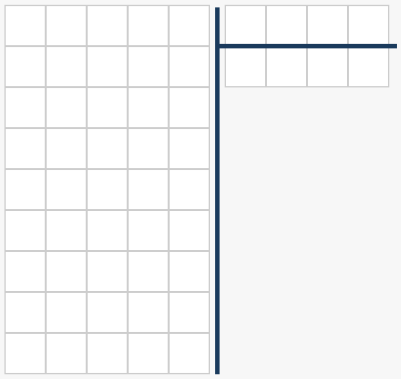

Je vérifie : ..... × ..... + ... = ...

b Ma division : ..... : .....

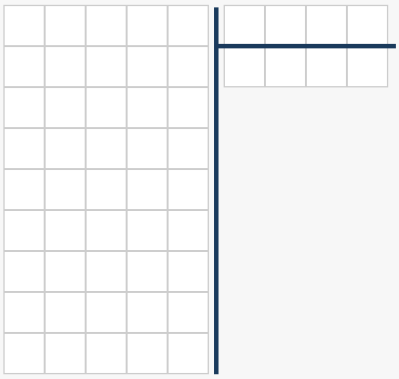

Je vérifie : ..... × ..... + ... = ...

c Ma division : ..... : .....

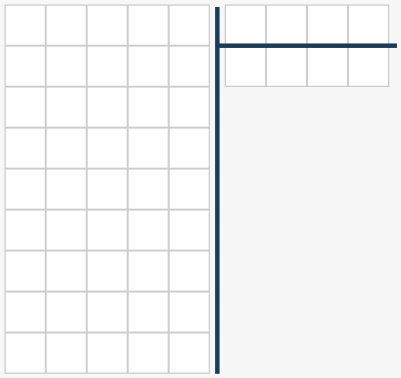

Je vérifie : ..... × ..... + ... = ...

d Ma division : ..... : .....

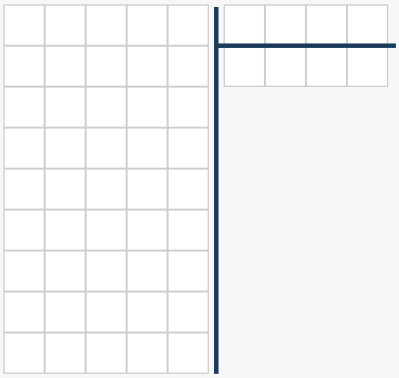

Je vérifie : ..... × ..... + ... = ...

e Ma division : ..... : .....

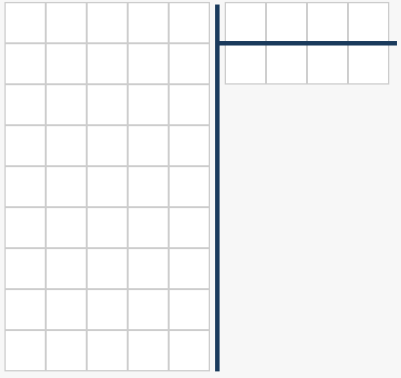

Je vérifie : ..... × ..... + ... = ...

f Ma division : ..... : .....

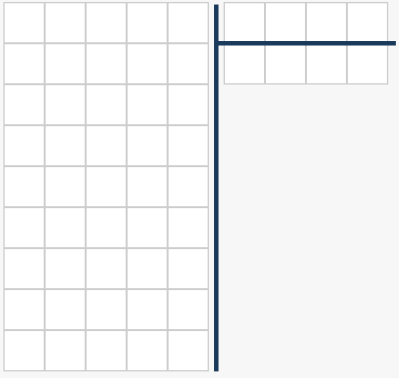

Je vérifie : ..... × ..... + ... = ...

Potence vierge à imprimer

4 grandes potences · un diviseur à 2 chiffres

Écris le nombre à diviser à gauche et le diviseur à droite, un chiffre par carreau. Puis les 5 étapes : 1. où commencer, 2. combien de fois, 3. multiplier puis soustraire, 4. abaisser le chiffre suivant, 5. vérifier.

a Ma division : ..... : .....

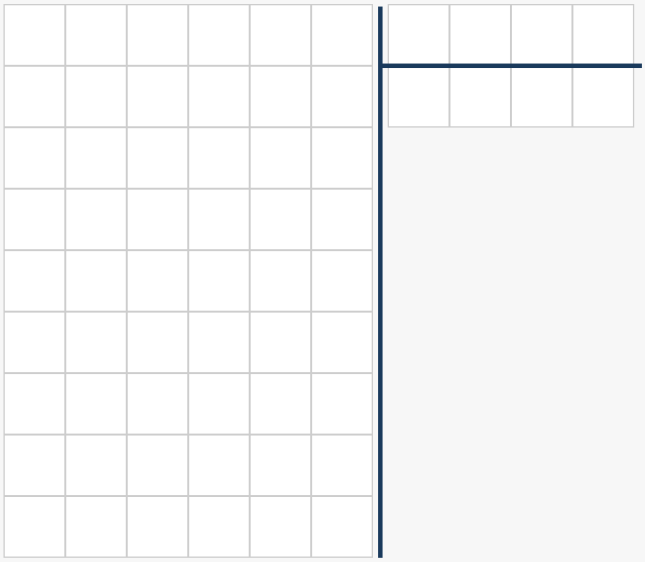

Je vérifie : ..... × ..... + ... = ...

b Ma division : ..... : .....

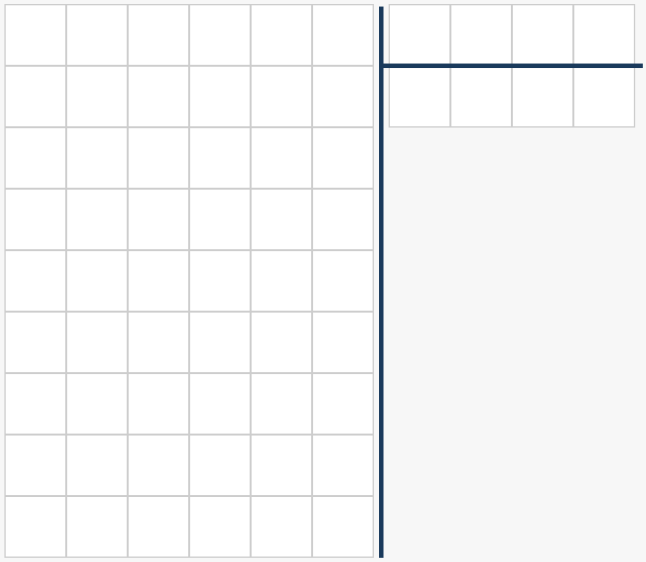

Je vérifie : ..... × ..... + ... = ...

c Ma division : ..... : .....

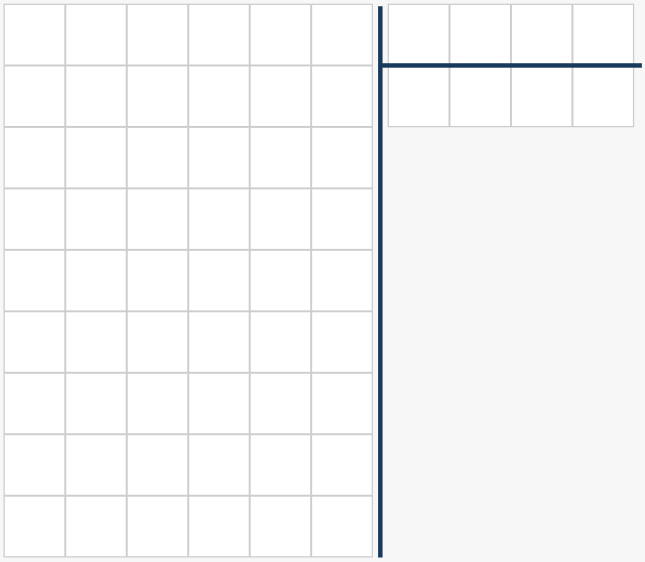

Je vérifie : ..... × ..... + ... = ...

d Ma division : ..... : .....

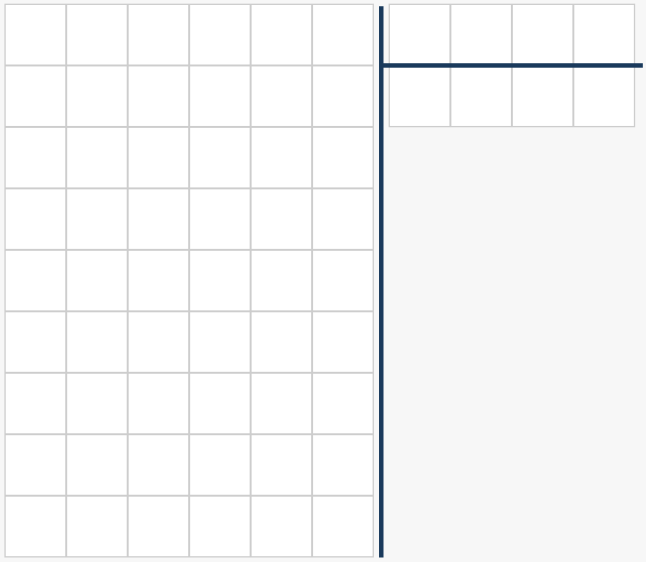

Je vérifie : ..... × ..... + ... = ...