La frise de ma vie

Je place les grands moments de ma vie, de ma naissance à aujourd'hui

Demande à tes parents les années, puis dessine un souvenir dans chaque cadre.

1 J'écris l'année de ma naissance, puis l'année sous chaque âge.

Je suis né(e) en : _____

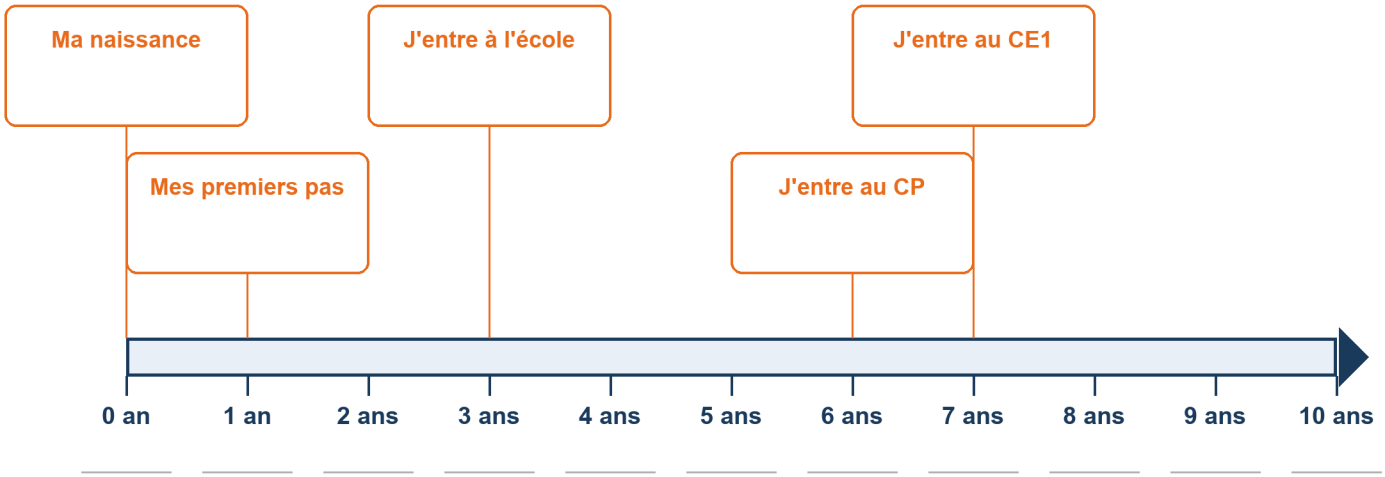

Sous chaque âge, écris l'année : ajoute 1 à chaque fois.

2 Je dessine mon souvenir préféré et j'écris mon âge à ce moment-là.

Mon souvenir préféré

J'avais : _____

La frise des trois générations

Julie, sa maman et son grand-père sur la même frise

Observe la frise de la famille de Julie, puis réponds aux questions.



1 Réponds aux questions.

a) Qui est né en premier ?

b) En quelle année est née Maman ?

c) Combien d'années séparent la naissance de Maman et celle de Julie ?

d) Combien de générations vois-tu sur la frise ?

2 À toi ! Écris les années de naissance de ta famille.

Un grand-parent : _____

Un parent : _____

Moi : _____

La frise des trois générations

Corrigé · Julie, sa maman et son grand-père sur la même frise

Observe la frise de la famille de Julie, puis réponds aux questions.



1 Réponds aux questions.

a) Qui est né en premier ?

Papi Jean, en 1958.

b) En quelle année est née Maman ?

En 1988.

c) Combien d'années séparent la naissance de Maman et celle de Julie ?

2018 - 1988 = 30 ans.

d) Combien de générations vois-tu sur la frise ?

Trois : Papi Jean, Maman et Julie.

2 À toi ! Écris les années de naissance de ta famille.

Un grand-parent : _____

Un parent : _____

Moi : _____

La frise d'une année

Les 12 mois dans l'ordre et les grands moments de l'année

Lis la frise des mois, puis réponds aux questions.

Une année : 12 mois, dans l'ordre. Les couleurs montrent les saisons.



1 Réponds aux questions.

a) Combien y a-t-il de mois dans une année ?

b) Quel mois vient juste après juin ?

c) Quel mois vient juste avant mars ?

d) Dans quel mois fête-t-on Noël ?

e) Dans quel mois a lieu la rentrée des classes ?

f) Quel est le premier mois de l'année ?

2 À toi ! Écris le mois de ton anniversaire et dessine ton gâteau.

Mon anniversaire est en : _____

Mon gâteau d'anniversaire

La frise d'une année

Corrigé · Les 12 mois dans l'ordre et les grands moments de l'année

Lis la frise des mois, puis réponds aux questions.

Une année : 12 mois, dans l'ordre. Les couleurs montrent les saisons.

1 janvier	2 février	3 mars	4 avril	5 mai	6 juin	7 juillet	8 août	9 septembre	10 octobre	11 novembre	12 décembre

1 Réponds aux questions.

a) Combien y a-t-il de mois dans une année ?

12 mois.

b) Quel mois vient juste après juin ?

juillet.

c) Quel mois vient juste avant mars ?

février.

d) Dans quel mois fête-t-on Noël ?

Décembre (le 25 décembre).

e) Dans quel mois a lieu la rentrée des classes ?

Septembre.

f) Quel est le premier mois de l'année ?

Janvier.

2 À toi ! Écris le mois de ton anniversaire et dessine ton gâteau.

Mon anniversaire est en : _____

Mon gâteau d'anniversaire

CahiersEnfants.com

La frise des 5 périodes de l'histoire

4 bandes à assembler, à l'échelle : les périodes et 30 repères datés

CE2 · CM1 · CM2

Bande 1 sur 4 · coupe la marge de gauche des bandes 2, 3 et 4, puis colle chaque bande au bout de la précédente

Échelle : 1 cm = 50 ans. Imprime à 100 % (taille réelle), sans « ajuster à la page ».

Avant -3300 : la Préhistoire, plus de 3 millions d'années, trop longue pour tenir à cette échelle.

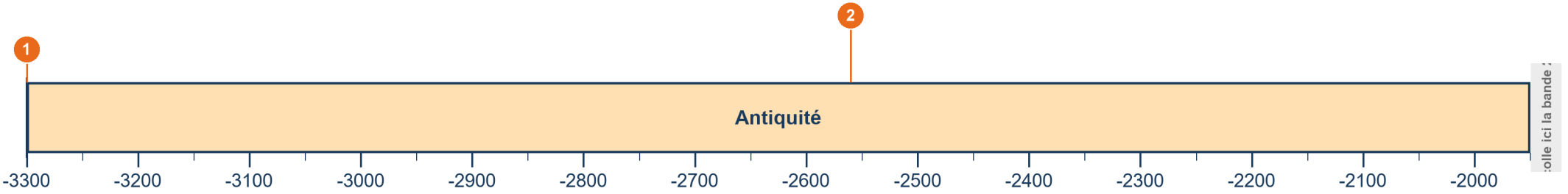

1. vers 3300 av. J.-C. : Invention de l'écriture en Mésopotamie

2. vers 2560 av. J.-C. : Construction de la grande pyramide de Khéops en Égypte

La frise des 5 périodes de l'histoire

4 bandes à assembler, à l'échelle : les périodes et 30 repères datés

CE2 · CM1 · CM2

Bande 2 sur 4 · coupe la marge de gauche des bandes 2, 3 et 4, puis colle chaque bande au bout de la précédente

Échelle : 1 cm = 50 ans. Imprime à 100 % (taille réelle), sans « ajuster à la page ».

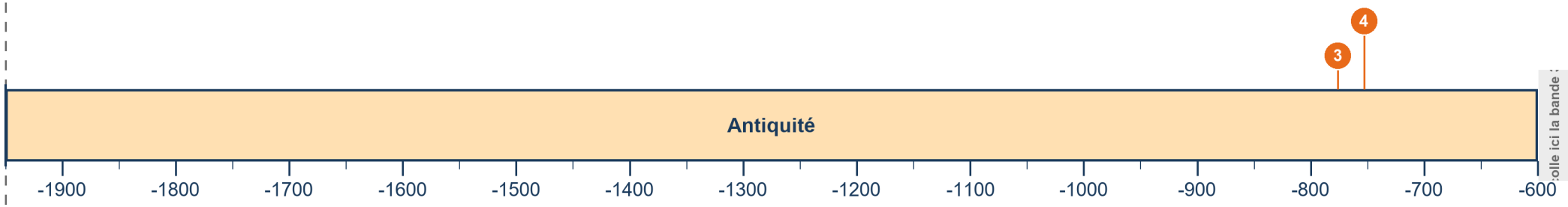

coupe ici

3. 776 av. J.-C. : Premiers Jeux olympiques en Grèce

4. 753 av. J.-C. : Fondation de Rome, selon la légende

La frise des 5 périodes de l'histoire

4 bandes à assembler, à l'échelle : les périodes et 30 repères datés

CE2 · CM1 · CM2

Bande 3 sur 4 · coupe la marge de gauche des bandes 2, 3 et 4, puis colle chaque bande au bout de la précédente

Échelle : 1 cm = 50 ans. Imprime à 100 % (taille réelle), sans « ajuster à la page ».

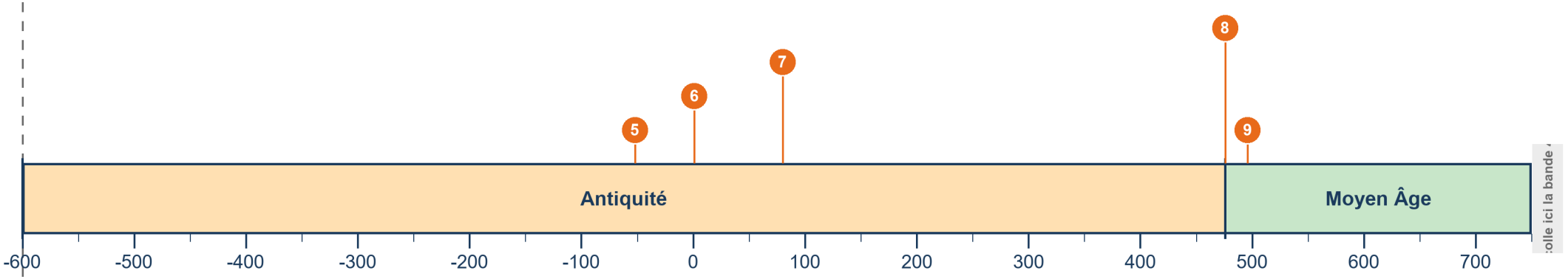

coupe ici

5. 52 av. J.-C. : Bataille d'Alésia : Vercingétorix se rend à Jules César

6. 1 : An 1 : début de notre façon de compter les années

7. 80 : Inauguration du Colisée à Rome

8. 476 : Chute de l'Empire romain d'Occident

9. vers 496 : Baptême de Clovis, roi des Francs

CahiersEnfants.com

La frise des 5 périodes de l'histoire

4 bandes à assembler, à l'échelle : les périodes et 30 repères datés

CE2 · CM1 · CM2

Bande 4 sur 4 · coupe la marge de gauche des bandes 2, 3 et 4, puis colle chaque bande au bout de la précédente

Échelle : 1 cm = 50 ans. Imprime à 100 % (taille réelle), sans « ajuster à la page ».

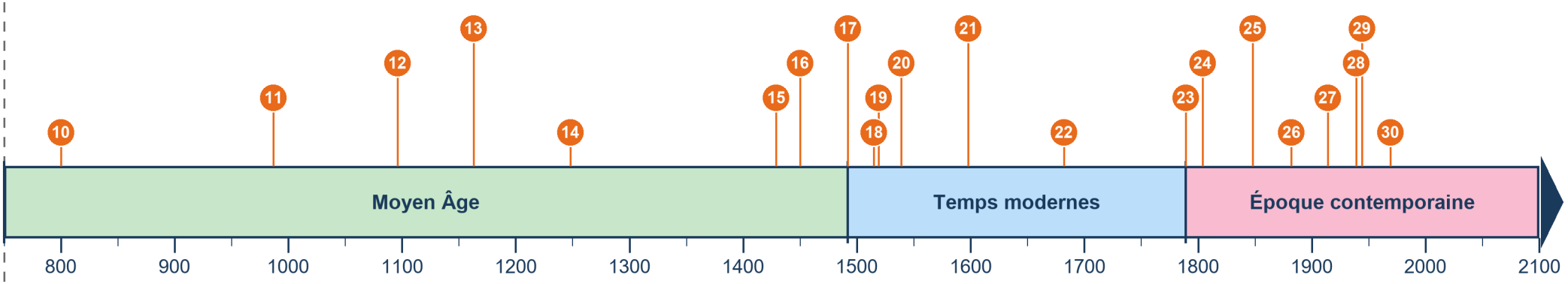

coupe ici

10. 800 : Charlemagne est couronné empereur à Rome
11. 987 : Hugues Capet devient roi des Francs
12. 1096 : Départ de la première croisade
13. 1163 : Début de la construction de Notre-Dame de Paris
14. 1248 : Louis IX fait consacrer la Sainte-Chapelle
15. 1429 : Jeanne d'Arc délivre Orléans
16. vers 1450 : Gutenberg met au point l'imprimerie
17. 1492 : Christophe Colomb arrive en Amérique
18. 1515 : Bataille de Marignan, gagnée par François Ier
19. 1519 : Début de la construction du château de Chambord
20. 1539 : Ordonnance de Villers-Cotterêts : le français pour les actes officiels
21. 1598 : Édit de Nantes signé par Henri IV
22. 1682 : Louis XIV installe la cour au château de Versailles
23. 1789 : Prise de la Bastille : début de la Révolution française
24. 1804 : Napoléon Ier est sacré empereur
25. 1848 : Abolition de l'esclavage dans les colonies françaises
26. 1882 : L'école devient gratuite, laïque et obligatoire (lois Ferry)
27. 1914 : Début de la Première Guerre mondiale
28. 1939 : Début de la Seconde Guerre mondiale
29. 1944 : Les femmes obtiennent le droit de vote en France
30. 1969 : Premiers pas d'un homme sur la Lune

CahiersEnfants.com

La frise vierge à compléter

4 bandes à assembler, à l'échelle, pour placer soi-même les périodes et les repères

CE2 · CM1 · CM2

Bande 1 sur 4 · coupe la marge de gauche des bandes 2, 3 et 4, puis colle chaque bande au bout de la précédente

Échelle : 1 cm = 50 ans. Imprime à 100 % (taille réelle), sans « ajuster à la page ».

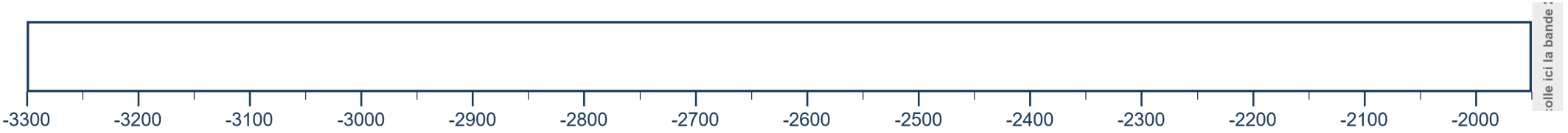

Colorie chaque période d'une couleur, écris son nom, puis place tes repères au bon endroit.

La frise vierge à compléter

4 bandes à assembler, à l'échelle, pour placer soi-même les périodes et les repères

CE2 · CM1 · CM2

Bande 2 sur 4 · coupe la marge de gauche des bandes 2, 3 et 4, puis colle chaque bande au bout de la précédente

Échelle : 1 cm = 50 ans. Imprime à 100 % (taille réelle), sans « ajuster à la page ».

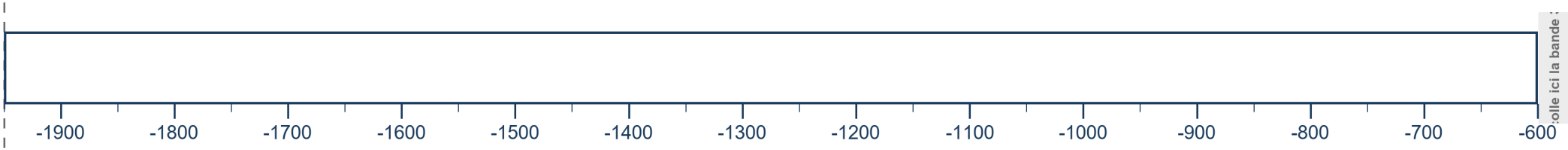

Colorie chaque période d'une couleur, écris son nom, puis place tes repères au bon endroit.

coupe ici

La frise vierge à compléter

4 bandes à assembler, à l'échelle, pour placer soi-même les périodes et les repères

CE2 · CM1 · CM2

Bande 3 sur 4 · coupe la marge de gauche des bandes 2, 3 et 4, puis colle chaque bande au bout de la précédente

Échelle : 1 cm = 50 ans. Imprime à 100 % (taille réelle), sans « ajuster à la page ».

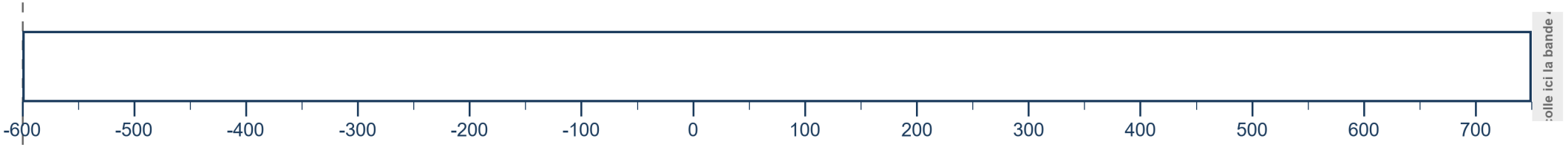

Colorie chaque période d'une couleur, écris son nom, puis place tes repères au bon endroit.

coupe ici

La frise vierge à compléter

4 bandes à assembler, à l'échelle, pour placer soi-même les périodes et les repères

CE2 · CM1 · CM2

Bande 4 sur 4 · coupe la marge de gauche des bandes 2, 3 et 4, puis colle chaque bande au bout de la précédente

Échelle : 1 cm = 50 ans. Imprime à 100 % (taille réelle), sans « ajuster à la page ».

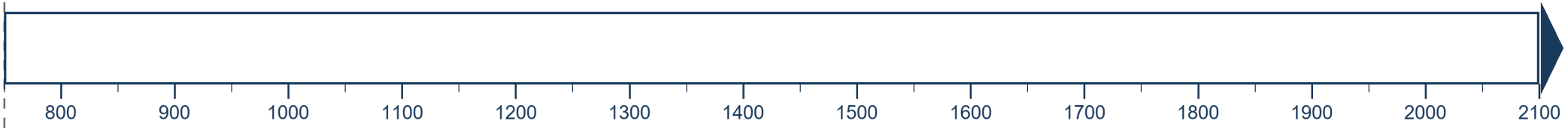

Colorie chaque période d'une couleur, écris son nom, puis place tes repères au bon endroit.

coupe ici

Placer des dates sur une frise

Le XXe siècle et le début du XXIe, de 1900 à 2030

Chaque graduation vaut 10 ans. Écris la lettre de chaque événement au bon endroit.

1 Lis les événements, puis place leur lettre sur la frise.

- A. 1914 : début de la Première Guerre mondiale
- B. 1939 : début de la Seconde Guerre mondiale
- C. 1944 : les femmes obtiennent le droit de vote en France
- D. 1969 : premiers pas d'un homme sur la Lune
- E. 1998 : la France gagne la Coupe du monde de football
- F. 2002 : les pièces et billets en euros arrivent en France



2 Calcule.

a) Combien d'années séparent le début des deux guerres mondiales ?

b) Combien d'années séparent les premiers pas sur la Lune et l'arrivée de l'euro ?

Placer des dates sur une frise

Corrigé · Le XXe siècle et le début du XXIe, de 1900 à 2030

Chaque graduation vaut 10 ans. Écris la lettre de chaque événement au bon endroit.

1 Lis les événements, puis place leur lettre sur la frise.

- A. 1914 : début de la Première Guerre mondiale
- B. 1939 : début de la Seconde Guerre mondiale
- C. 1944 : les femmes obtiennent le droit de vote en France
- D. 1969 : premiers pas d'un homme sur la Lune
- E. 1998 : la France gagne la Coupe du monde de football
- F. 2002 : les pièces et billets en euros arrivent en France

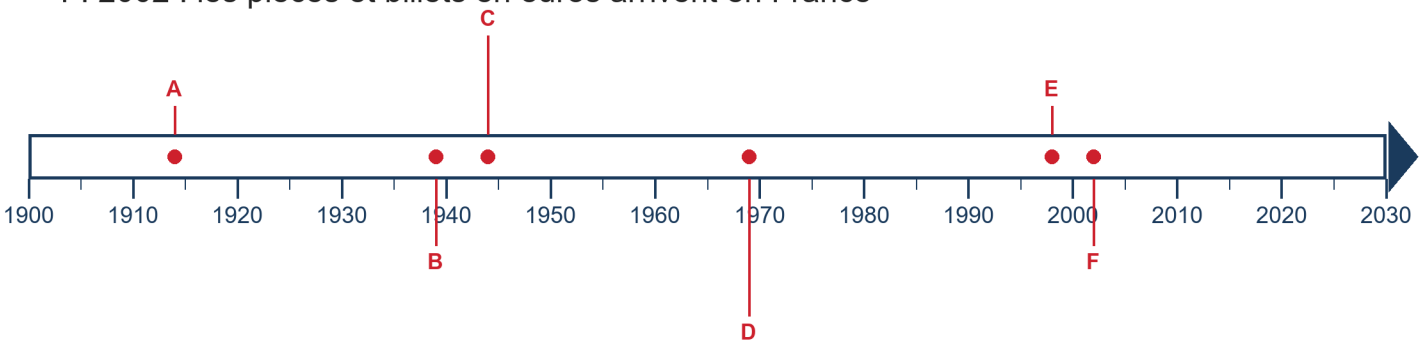

2 Calcule.

a) Combien d'années séparent le début des deux guerres mondiales ?

1939 - 1914 = 25 ans.

b) Combien d'années séparent les premiers pas sur la Lune et l'arrivée de l'euro ?

2002 - 1969 = 33 ans.

Lire une frise chronologique

Six repères du Moyen Âge, de 476 à 1492

Observe bien la frise : chaque grande graduation vaut 100 ans.

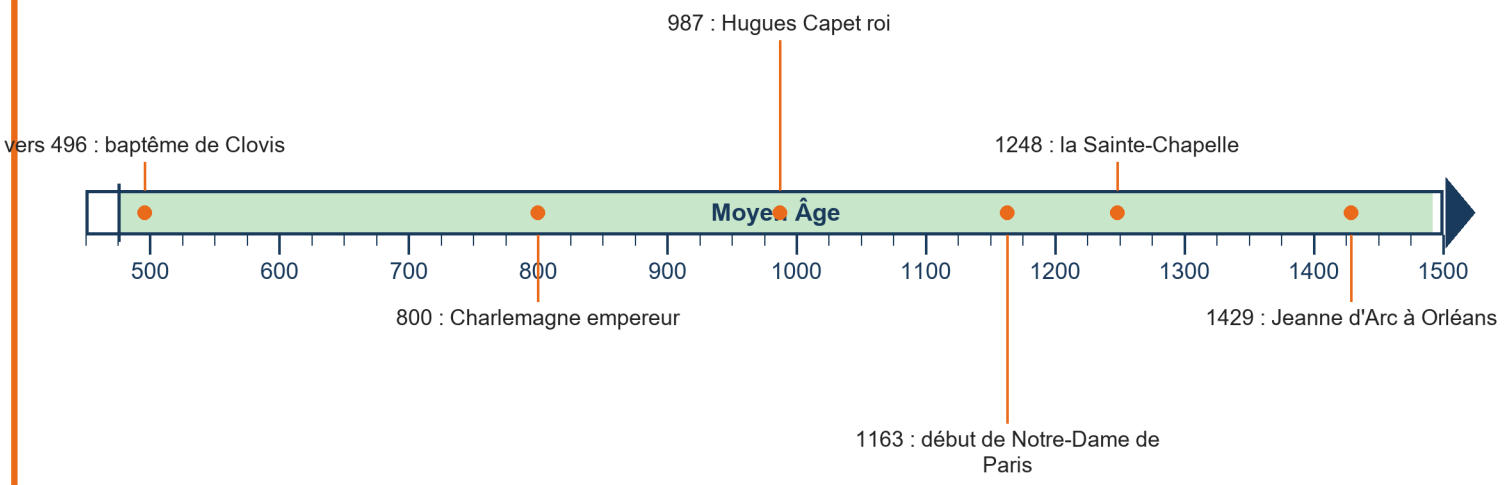

1 **Réponds aux questions à l'aide de la frise.**

a) Quel événement est le plus ancien ?

b) Quel événement est le plus récent ?

c) Combien d'années dure le Moyen Âge, de 476 à 1492 ?

d) Qui devient roi en 987 ?

e) Combien d'années séparent Charlemagne et Hugues Capet ?

Lire une frise chronologique

Corrigé · Six repères du Moyen Âge, de 476 à 1492

Observe bien la frise : chaque grande graduation vaut 100 ans.

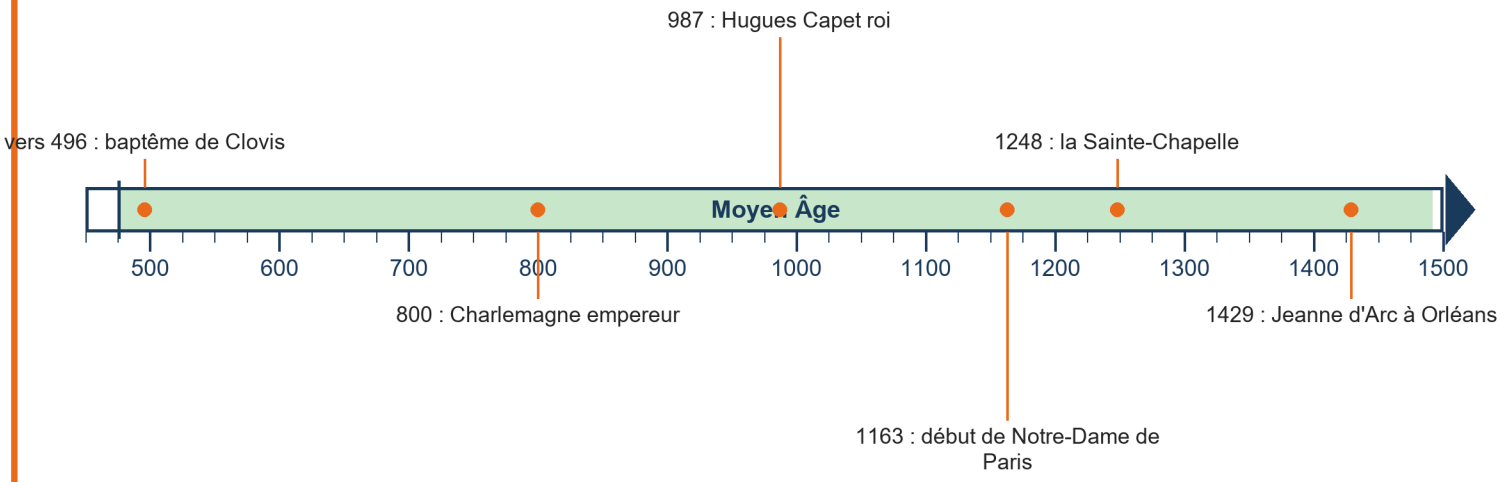

1 Réponds aux questions à l'aide de la frise.

a) Quel événement est le plus ancien ?

Le baptême de Clovis (vers 496).

b) Quel événement est le plus récent ?

Jeanne d'Arc délivre Orléans (1429).

c) Combien d'années dure le Moyen Âge, de 476 à 1492 ?

1492 - 476 = 1 016 ans.

d) Qui devient roi en 987 ?

Hugues Capet.

e) Combien d'années séparent Charlemagne et Hugues Capet ?

987 - 800 = 187 ans.

Trouver le siècle d'une date

Les centaines plus un, et le piège des années rondes

Un siècle dure 100 ans. Le premier siècle va de l'an 1 à l'an 100.

La méthode

Je prends le nombre de centaines de l'année et j'ajoute 1. 1515 : 15 centaines, plus 1, c'est le 16e siècle, le XVIe siècle.

Attention aux années rondes : l'an 1900 est la DERNIÈRE année du XIXe siècle. Le XXe siècle commence en 1901.

1 Complète le tableau : le siècle en chiffres, puis en chiffres romains.

Événement	Année	Siècle	En chiffres romains
Chute de l'Empire romain d'Occident	476		
Hugues Capet devient roi	987		
Début de Notre-Dame de Paris	1163		
Consécration de la Sainte-Chapelle	1248		
Jeanne d'Arc délivre Orléans	1429		
Bataille de Marignan	1515		
La cour s'installe à Versailles	1682		
Prise de la Bastille	1789		
Sacre de Napoléon Ier	1804		
Premiers pas sur la Lune	1969		
Cette année	2026		

2 Le piège : à quel siècle appartient l'an 1900 ?

a) L'an 1900 appartient au…

Trouver le siècle d'une date

Corrigé · Les centaines plus un, et le piège des années rondes

Un siècle dure 100 ans. Le premier siècle va de l'an 1 à l'an 100.

La méthode

Je prends le nombre de centaines de l'année et j'ajoute 1. 1515 : 15 centaines, plus 1, c'est le 16e siècle, le XVIe siècle.

Attention aux années rondes : l'an 1900 est la DERNIÈRE année du XIXe siècle. Le XXe siècle commence en 1901.

1 Complète le tableau : le siècle en chiffres, puis en chiffres romains.

Événement	Année	Siècle	En chiffres romains
Chute de l'Empire romain d'Occident	476	**5e**	**Ve**
Hugues Capet devient roi	987	**10e**	**Xe**
Début de Notre-Dame de Paris	1163	**12e**	**XIIe**
Consécration de la Sainte-Chapelle	1248	**13e**	**XIIIe**
Jeanne d'Arc délivre Orléans	1429	**15e**	**XVe**
Bataille de Marignan	1515	**16e**	**XVIe**
La cour s'installe à Versailles	1682	**17e**	**XVIIe**
Prise de la Bastille	1789	**18e**	**XVIIIe**
Sacre de Napoléon Ier	1804	**19e**	**XIXe**
Premiers pas sur la Lune	1969	**20e**	**XXe**
Cette année	2026	**21e**	**XXIe**

2 Le piège : à quel siècle appartient l'an 1900 ?

a) L'an 1900 appartient au…

XIXe siècle (le XXe commence en 1901).

Les siècles en chiffres romains

Lire et écrire les siècles comme dans les livres

I = 1, V = 5, X = 10. Un symbole placé avant un plus grand se retire : IV = 4, IX = 9.

1 Écris chaque siècle en chiffres.

XVe	XIXe	XIIe	IXe	XXIe	VIe

2 Écris chaque siècle en chiffres romains.

14e	18e	11e	4e	20e	16e

3 Complète avec la première et la dernière année du siècle.

Le XVIe siècle commence en _____ et se termine en _____ . Le XVIIIe siècle commence en _____ et se termine en _____ . Le XXIe siècle a commencé en _____ .

4 Écris le siècle en chiffres romains.

a) Louis XIV s'installe à Versailles en 1682 : au…

b) Gutenberg met au point l'imprimerie vers 1450 : au…

c) Charlemagne est couronné empereur en 800 : au…

Les siècles en chiffres romains

Corrigé · Lire et écrire les siècles comme dans les livres

I = 1, V = 5, X = 10. Un symbole placé avant un plus grand se retire : IV = 4, IX = 9.

1 Écris chaque siècle en chiffres.

XVe	XIXe	XIIe	IXe	XXIe	VIe
15e	19e	12e	9e	21e	6e

2 Écris chaque siècle en chiffres romains.

14e	18e	11e	4e	20e	16e
XIVe	XVIIIe	XIe	IVe	XXe	XVIe

3 Complète avec la première et la dernière année du siècle.

Le XVIe siècle commence en **1501** et se termine en **1600** . Le XVIIIe siècle commence en **1701** et se termine en **1800** . Le XXIe siècle a commencé en **2001** .

4 Écris le siècle en chiffres romains.

a) Louis XIV s'installe à Versailles en 1682 : au…

XVIIe siècle.

b) Gutenberg met au point l'imprimerie vers 1450 : au…

XVe siècle.

c) Charlemagne est couronné empereur en 800 : au…

VIIIe siècle (800 est la dernière année du VIIIe).

Avant ou après Jésus-Christ ?

Les années avant J.-C. se comptent à rebours

Plus le nombre est grand avant J.-C., plus l'événement est ancien.

À retenir

Notre calendrier commence en l'an 1. Avant, on compte à rebours : 776 av. J.-C. est plus ancien que 753 av. J.-C.

Sur une frise, les années avant J.-C. sont à gauche de l'an 1, les années après J.-C. à droite.

1 Place la lettre de chaque événement sur la frise.

- A. 776 av. J.-C. : premiers Jeux olympiques
- B. 753 av. J.-C. : fondation de Rome
- C. 52 av. J.-C. : bataille d'Alésia
- D. 80 : inauguration du Colisée
- E. 476 : chute de l'Empire romain d'Occident



2 Coche la bonne réponse.

1. Quel événement est le plus ancien ?

☐ la fondation de Rome ☐ les premiers Jeux olympiques

2. La bataille d'Alésia a lieu…

☐ avant J.-C. ☐ après J.-C.

3. Le Colisée est inauguré…

☐ avant J.-C. ☐ après J.-C.

3 Range du plus ancien (1) au plus récent (4).

☐ Bataille d'Alésia (52 av. J.-C.)

☐ Fondation de Rome (753 av. J.-C.)

☐ Inauguration du Colisée (80)

☐ Grande pyramide de Khéops (2560 av. J.-C.)

Avant ou après Jésus-Christ ?

Corrigé · Les années avant J.-C. se comptent à rebours

Plus le nombre est grand avant J.-C., plus l'événement est ancien.

À retenir

Notre calendrier commence en l'an 1. Avant, on compte à rebours : 776 av. J.-C. est plus ancien que 753 av. J.-C.

Sur une frise, les années avant J.-C. sont à gauche de l'an 1, les années après J.-C. à droite.

1 Place la lettre de chaque événement sur la frise.

- A. 776 av. J.-C. : premiers Jeux olympiques
- B. 753 av. J.-C. : fondation de Rome
- C. 52 av. J.-C. : bataille d'Alésia
- D. 80 : inauguration du Colisée
- E. 476 : chute de l'Empire romain d'Occident

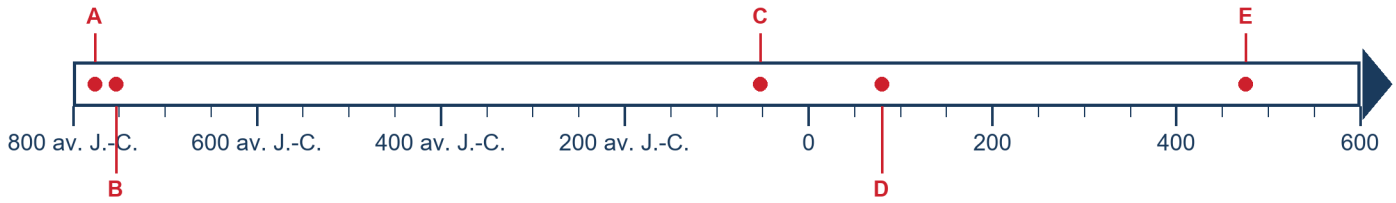

2 Coche la bonne réponse.

1. Quel événement est le plus ancien ?
☐ la fondation de Rome ☑ les premiers Jeux olympiques

2. La bataille d'Alésia a lieu…
☑ avant J.-C. ☐ après J.-C.

3. Le Colisée est inauguré…
☐ avant J.-C. ☑ après J.-C.

3 Range du plus ancien (1) au plus récent (4).

[3] Bataille d'Alésia (52 av. J.-C.)

[2] Fondation de Rome (753 av. J.-C.)

[4] Inauguration du Colisée (80)

[1] Grande pyramide de Khéops (2560 av. J.-C.)

Ranger des événements dans l'ordre

De l'Antiquité à aujourd'hui

Ranger, c'est remettre les événements dans l'ordre où ils se sont passés.

1 Numérote du plus ancien (1) au plus récent (8). Les dates t'aident.

- ☐ Prise de la Bastille (1789)
- ☐ Baptême de Clovis (496)
- ☐ Premiers pas sur la Lune (1969)
- ☐ Bataille de Marignan (1515)
- ☐ Charlemagne empereur (800)
- ☐ Invention de l'écriture (3300 av. J.-C.)
- ☐ Édit de Nantes (1598)
- ☐ Bataille d'Alésia (52 av. J.-C.)

2 Sans les dates, cette fois ! Numérote de 1 à 5.

- ☐ Les premiers Jeux olympiques en Grèce
- ☐ Napoléon Ier est sacré empereur
- ☐ Construction de la grande pyramide de Khéops
- ☐ Jeanne d'Arc délivre Orléans
- ☐ Christophe Colomb arrive en Amérique

Ranger des événements dans l'ordre

Corrigé · De l'Antiquité à aujourd'hui

Ranger, c'est remettre les événements dans l'ordre où ils se sont passés.

1 Numérote du plus ancien (1) au plus récent (8). Les dates t'aident.

- [7] Prise de la Bastille (1789)
- [3] Baptême de Clovis (496)
- [8] Premiers pas sur la Lune (1969)
- [5] Bataille de Marignan (1515)
- [4] Charlemagne empereur (800)
- [1] Invention de l'écriture (3300 av. J.-C.)
- [6] Édit de Nantes (1598)
- [2] Bataille d'Alésia (52 av. J.-C.)

2 Sans les dates, cette fois ! Numérote de 1 à 5.

- [2] Les premiers Jeux olympiques en Grèce
- [5] Napoléon Ier est sacré empereur
- [1] Construction de la grande pyramide de Khéops
- [3] Jeanne d'Arc délivre Orléans
- [4] Christophe Colomb arrive en Amérique

Les 5 grandes périodes de l'histoire

Ce qui commence et ce qui finit chaque période

Les historiens découpent le temps en périodes, séparées par de grands événements.

1 Complète avec les mots de la boîte.

Révolution · l'écriture · Amérique · romain · contemporaine

La Préhistoire se termine avec l'invention de _____ , vers 3300 av. J.-C. L'Antiquité se termine avec la chute de l'Empire _____ d'Occident, en 476. Le Moyen Âge se termine quand Christophe Colomb arrive en _____ , en 1492. Les Temps modernes se terminent avec la _____ française, en 1789. Depuis, nous vivons à l'époque _____ .

2 Écris la période de chaque événement.

Événement	Année	Période
Les premiers Jeux olympiques	776 av. J.-C.	
Charlemagne est couronné empereur	800	
Début du château de Chambord	1519	
Premiers pas sur la Lune	1969	
Bataille d'Alésia	52 av. J.-C.	
Jeanne d'Arc délivre Orléans	1429	
Édit de Nantes	1598	
L'école devient gratuite et obligatoire	1882	

3 Quelle est la période la plus courte : le Moyen Âge ou les Temps modernes ?

a) Calcule les deux durées, puis réponds.

Les 5 grandes périodes de l'histoire

Corrigé · Ce qui commence et ce qui finit chaque période

Les historiens découpent le temps en périodes, séparées par de grands événements.

1 Complète avec les mots de la boîte.

Révolution · l'écriture · Amérique · romain · contemporaine

La Préhistoire se termine avec l'invention de ___l'écriture___ , vers 3300 av. J.-C. L'Antiquité se termine avec la chute de l'Empire ___romain___ d'Occident, en 476. Le Moyen Âge se termine quand Christophe Colomb arrive en ___Amérique___ , en 1492. Les Temps modernes se terminent avec la ___Révolution___ française, en 1789. Depuis, nous vivons à l'époque ___contemporaine___ .

2 Écris la période de chaque événement.

Événement	Année	Période
Les premiers Jeux olympiques	776 av. J.-C.	Antiquité
Charlemagne est couronné empereur	800	Moyen Âge
Début du château de Chambord	1519	Temps modernes
Premiers pas sur la Lune	1969	Époque contemporaine
Bataille d'Alésia	52 av. J.-C.	Antiquité
Jeanne d'Arc délivre Orléans	1429	Moyen Âge
Édit de Nantes	1598	Temps modernes
L'école devient gratuite et obligatoire	1882	Époque contemporaine

3 Quelle est la période la plus courte : le Moyen Âge ou les Temps modernes ?

a) Calcule les deux durées, puis réponds.

Moyen Âge : 1 016 ans ; Temps modernes : 297 ans. Les Temps modernes.

Calculer une durée en histoire

Combien d'années entre deux événements ?

Pour trouver une durée, je soustrais la date la plus ancienne à la plus récente.

Exemple

La Révolution commence en 1789, Napoléon est sacré en 1804. 1804 - 1789 = 15. Il s'est passé 15 ans.

1 **Calcule chaque durée. Pose l'opération.**

a) De Hugues Capet (987) à la prise de la Bastille (1789) ?

b) Du début de Notre-Dame de Paris (1163) à la Sainte-Chapelle (1248) ?

c) De la bataille de Marignan (1515) à l'édit de Nantes (1598) ?

d) De l'abolition de l'esclavage (1848) aux lois Ferry (1882) ?

e) De la fondation de Rome (753 av. J.-C.) à Alésia (52 av. J.-C.) ?

f) De l'imprimerie de Gutenberg (vers 1450) à cette année (2026) ?

2 **Problème : la grande pyramide de Khéops a été construite vers 2560 av. J.-C. Les premiers Jeux olympiques ont lieu en 776 av. J.-C. Combien d'années les séparent ?**

a) Ma réponse :

Calculer une durée en histoire

Corrigé · Combien d'années entre deux événements ?

Pour trouver une durée, je soustrais la date la plus ancienne à la plus récente.

Exemple

La Révolution commence en 1789, Napoléon est sacré en 1804. 1804 - 1789 = 15. Il s'est passé 15 ans.

1 **Calcule chaque durée. Pose l'opération.**

a) De Hugues Capet (987) à la prise de la Bastille (1789) ?

1789 - 987 = 802 ans.

b) Du début de Notre-Dame de Paris (1163) à la Sainte-Chapelle (1248) ?

1248 - 1163 = 85 ans.

c) De la bataille de Marignan (1515) à l'édit de Nantes (1598) ?

1598 - 1515 = 83 ans.

d) De l'abolition de l'esclavage (1848) aux lois Ferry (1882) ?

1882 - 1848 = 34 ans.

e) De la fondation de Rome (753 av. J.-C.) à Alésia (52 av. J.-C.) ?

753 - 52 = 701 ans.

f) De l'imprimerie de Gutenberg (vers 1450) à cette année (2026) ?

2026 - 1450 = 576 ans environ.

2 **Problème : la grande pyramide de Khéops a été construite vers 2560 av. J.-C. Les premiers Jeux olympiques ont lieu en 776 av. J.-C. Combien d'années les séparent ?**

a) Ma réponse :

2560 - 776 = 1 784 ans environ.

Évaluation : se repérer dans le temps

Bilan CE2 sur la frise chronologique

Lis bien chaque consigne avant de répondre.

1 Range du plus ancien (1) au plus récent (5).

- ☐ Premiers pas sur la Lune (1969)
- ☐ Prise de la Bastille (1789)
- ☐ Baptême de Clovis (496)
- ☐ Bataille de Marignan (1515)
- ☐ Début de la Première Guerre mondiale (1914)

2 Place la lettre de chaque événement sur la frise (une graduation = 10 ans).

- A. 1914 : début de la Première Guerre mondiale
- B. 1944 : droit de vote des femmes
- C. 1969 : premiers pas sur la Lune
- D. 2002 : l'euro en France



3 Écris le siècle en chiffres.

1515	1789	1969	2026

4 Vrai ou faux ?

Affirmation	Vrai	Faux
Un siècle dure 100 ans.	☐	☐
1789 est plus ancien que 1515.	☐	☐
Sur une frise, le passé est à gauche.	☐	☐

Mon bilan

	Acquis	En cours	À revoir
Je range des événements			
Je place des dates sur une frise			
Je trouve le siècle d'une date			

Évaluation : se repérer dans le temps

Corrigé · Bilan CE2 sur la frise chronologique

Lis bien chaque consigne avant de répondre.

1 Range du plus ancien (1) au plus récent (5).

- [5] Premiers pas sur la Lune (1969)
- [3] Prise de la Bastille (1789)
- [1] Baptême de Clovis (496)
- [2] Bataille de Marignan (1515)
- [4] Début de la Première Guerre mondiale (1914)

2 Place la lettre de chaque événement sur la frise (une graduation = 10 ans).

- A. 1914 : début de la Première Guerre mondiale
- B. 1944 : droit de vote des femmes
- C. 1969 : premiers pas sur la Lune
- D. 2002 : l'euro en France

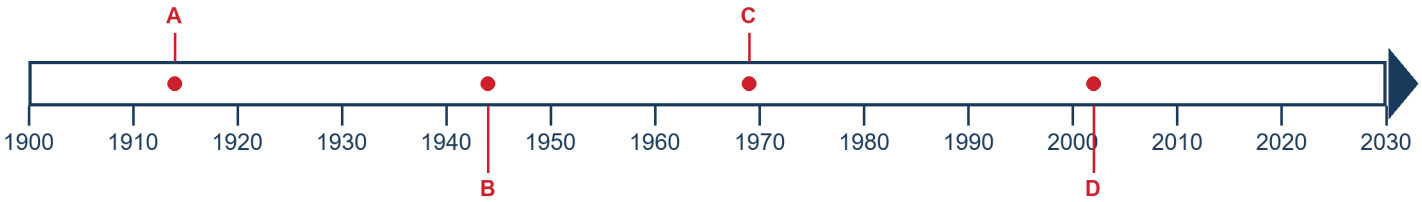

3 Écris le siècle en chiffres.

1515	1789	1969	2026
16e siècle	18e siècle	20e siècle	21e siècle

4 Vrai ou faux ?

Affirmation	Vrai	Faux
Un siècle dure 100 ans.	☑	☐
1789 est plus ancien que 1515.	☐	☑
Sur une frise, le passé est à gauche.	☑	☐

Mon bilan

	Acquis	En cours	À revoir
Je range des événements			
Je place des dates sur une frise			
Je trouve le siècle d'une date			

Évaluation : la frise et les périodes

Bilan CM1 et CM2

Lis bien chaque consigne. Tu peux t'aider d'un brouillon pour les calculs.

1 Écris la période de chaque événement.

Événement	Période
Fondation de Rome (753 av. J.-C.)	
Hugues Capet devient roi (987)	
Ordonnance de Villers-Cotterêts (1539)	
Début de la Seconde Guerre mondiale (1939)	

2 Écris le siècle en chiffres romains.

987	1248	1539	1804	1900

3 Coche la bonne réponse.

1. Le plus ancien :

☐ 52 av. J.-C. ☐ 753 av. J.-C. ☐ 80

2. L'événement qui ouvre les Temps modernes :

☐ la prise de la Bastille ☐ l'arrivée de Colomb en Amérique

4 Calcule les durées.

a) De la prise de la Bastille (1789) aux premiers pas sur la Lune (1969) ?

b) Du baptême de Clovis (vers 496) au couronnement de Charlemagne (800) ?

Mon bilan

	Acquis	En cours	À revoir
Je connais les 5 périodes			
J'écris les siècles en chiffres romains			
Je calcule une durée			

Évaluation : la frise et les périodes

Corrigé · Bilan CM1 et CM2

Lis bien chaque consigne. Tu peux t'aider d'un brouillon pour les calculs.

1 Écris la période de chaque événement.

Événement	Période
Fondation de Rome (753 av. J.-C.)	**Antiquité**
Hugues Capet devient roi (987)	**Moyen Âge**
Ordonnance de Villers-Cotterêts (1539)	**Temps modernes**
Début de la Seconde Guerre mondiale (1939)	**Époque contemporaine**

2 Écris le siècle en chiffres romains.

987	1248	1539	1804	1900
Xe	**XIIIe**	**XVIe**	**XIXe**	**XIXe**

3 Coche la bonne réponse.

1. Le plus ancien :

☐ 52 av. J.-C. ☑ 753 av. J.-C. ☐ 80

2. L'événement qui ouvre les Temps modernes :

☐ la prise de la Bastille ☑ l'arrivée de Colomb en Amérique

4 Calcule les durées.

a) De la prise de la Bastille (1789) aux premiers pas sur la Lune (1969) ?

1969 - 1789 = 180 ans.

b) Du baptême de Clovis (vers 496) au couronnement de Charlemagne (800) ?

800 - 496 = 304 ans environ.

Mon bilan

	Acquis	En cours	À revoir
Je connais les 5 périodes			
J'écris les siècles en chiffres romains			
Je calcule une durée			